1 **Trouve** tous les nombres inférieurs à 100 qui sont divisibles à la fois par 3 et par 5.
Que remarques-tu ?

2 **Trouve** tous les nombres inférieurs à 50 qui sont divisibles par 3, mais pas par 6 ni par 9.

3 ***a.*** **Complète** ces schémas.

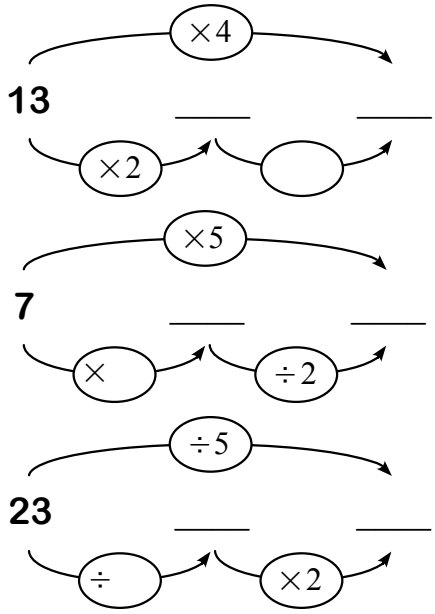

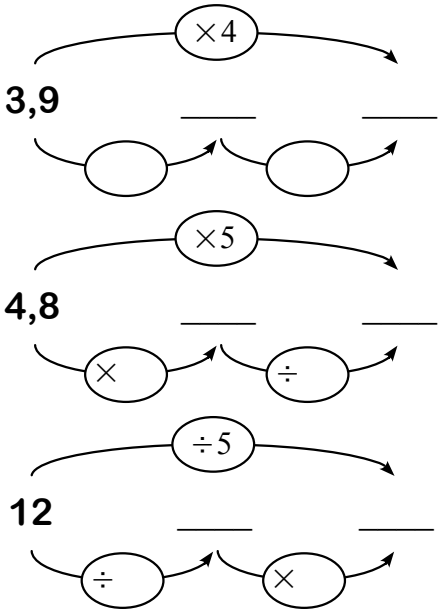

b. **Écris** les règles de calcul que ces schémas illustrent :

• Multiplier un nombre par 4 revient à le _____ par ___
puis à _____ le résultat par ___.

• Multiplier un nombre par ___ revient à le _____ par ___
puis à _____ le résultat par ___.

• _____ un nombre par ___ revient à le _____ par ___
puis à _____ le résultat par ___.

c. **Complète** ces deux derniers schémas

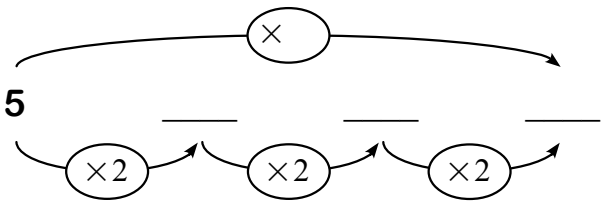

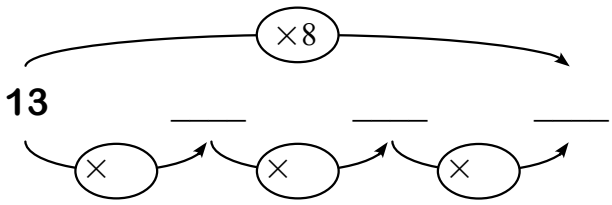

4 **Effectue** mentalement ces calculs.

• 15×5	• 17×4	• $2{,}3\times5$	• $28\div5$
• $18\div4$	• $37\div5$	• 15×8	• 32×4
• 102×5	• $28\div8$	• $3\div5$	• 41×8

usage commercial avec accord de l'auteur
JC Salmon - jc.salmon.74@orange.fr