1 ***a.*** Dans un triangle, on appelle ***hauteur*** une _____ qui passe par _____ et qui _____ .

b. Sur ces triangles, on a déjà tracé la hauteur issue de A.

Trace les deux autres hauteurs de chaque triangle.

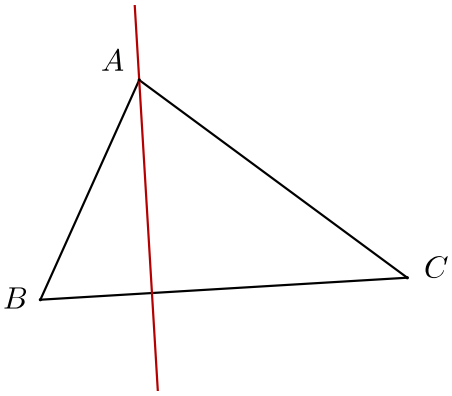

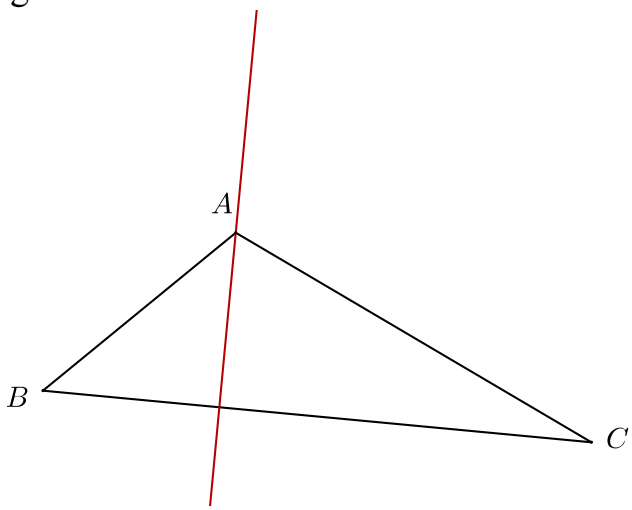

c. Que remarques-tu ? _____

2 Construis avec soin les trois hauteurs de chacun de ces triangles, et place leur orthocentre.

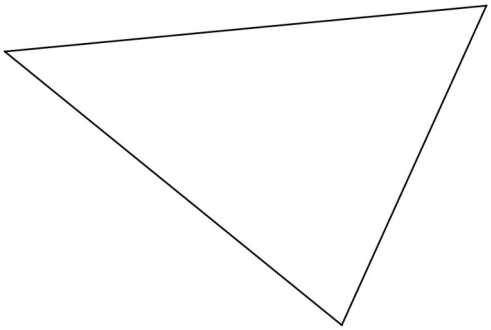

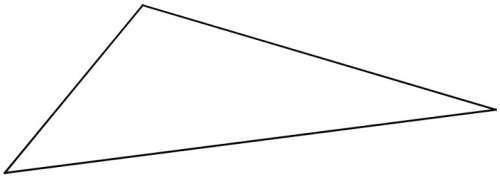

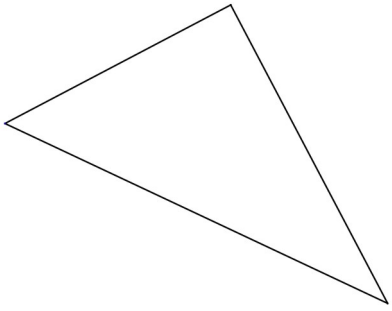

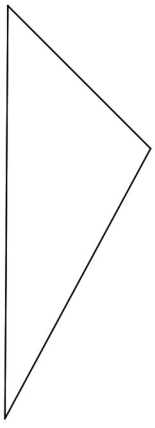

usage commercial avec accord de l'auteur
JC Salmon - jc.salmon.74@orange.fr